ورقـة عـمــل

الصف : الثاني الأساسي

المبحث: الرياضيات الوحدة: الثانية

الموضوع : الجمع ضمن ٩٩ دون حمل

الأهداف : ١.جمع الاعداد ضمن ٩٩ دون حمل أفقياً وعمودياً

السؤال الأول : هيا نجمع بشكل أفقي فيما يلي:-

=٤٦+٢١ | =٣٩+٥٠



=٥١+٣٢ | =٨٢+١١

السؤال الثاني : هيا نجمع بشكل عمودي فيما يلي:-

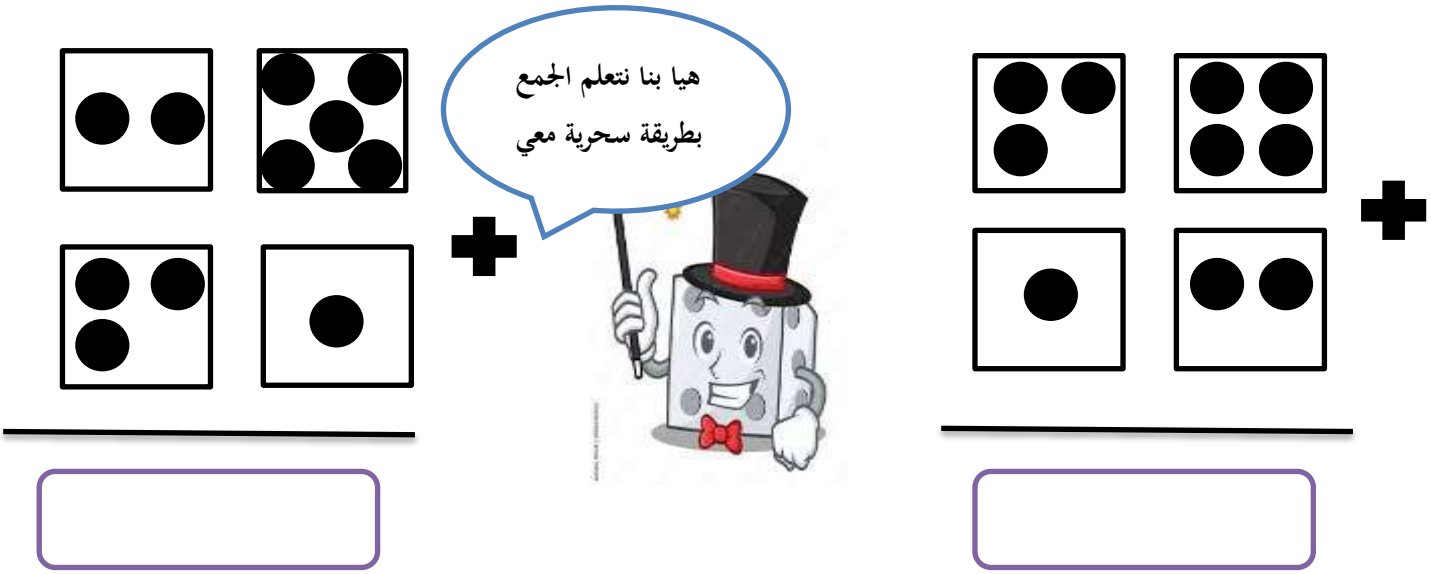
٥ ٨	٣ ٤	٣ ٧	٦ ٣
٢ ١ +	٥ +	٤ ١ +	٢ ٥ +

السؤال الثالث : هيا نتعلم جمع ثلاثة أعداد فيما يلي :




١ ٤	٢ ٥
٤ ٠ +	٦ ١ +
٢ ٣	١ ٣
_____	_____

السؤال الرابع : هيا نتعلم الجمع عن طريق مكعب النرد :



السؤال الخامس : هيا بنا نصل المربع في العمود الأول بما يناسبه في العمود الثاني:



=٣٤+٦١	١٦احاد و٧ عشرات
=٤١+٣٥	٩٥
=١٠+٣٢	

ورقـة عـمـل

الصف : الثاني الأساسي

المبحث: الرياضيات الوحدة: الثانية

الموضوع : الطرح ضمن ٩٩ دون استلاف

الأهداف : ١.طرح الاعداد ضمن ٩٩ دون استلاف أفقياً وعمودياً

السؤال الأول : هيا نجد ناتج الطرح فيما يلي:-



هيا بنا نتعلم
الطرح الأفقي:-

٩٨ - ٥٤ =

٢٦ - ١٤ =

٦٧ - ٢٤ =

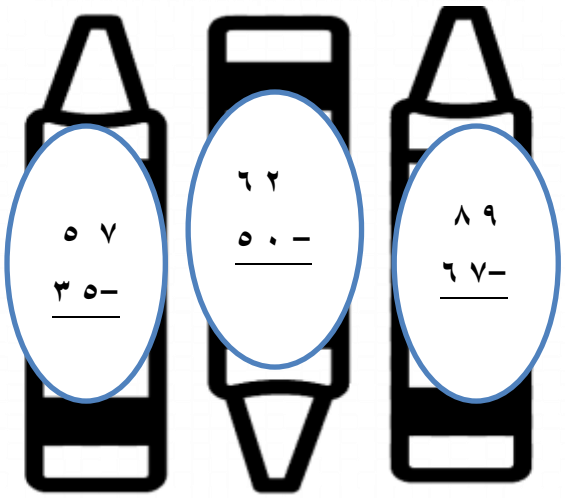
٣٩ - ٥ =

السؤال الثاني : هيا نجد ناتج الطرح فيما يلي ثم نلون:-

هيا نجد ناتج الجمع
للمسائل التالية



بعد إيجاد الناتج نلون
القلم الذي يكون جوابه
٢٢ بالأحمر و١٢
بالأخضر



السؤال الثالث : هيا نجد ناتج الطرح ثم نتحقق عن طريق الجمع :



=٣٨ -٨٩	←	= +
=٢١-٦٤	←	= +
=٣٠-٥٧	←	= +

السؤال الرابع : هيا نطرح ونلون كل أسطوانة مع المكعب المناسب:-



=٢٢-٧٣	الإجابة عدد زوجي
=٤٤-٨٦	٥١
=٥٤-٩٥	= ٢٠+٢١