ورقـة عـمــل

الصف :٣س　　المبحث : الرياضيات

الوحدة : جمع الأعداد وطرحها ضمن ٩٩٩٩

١. هيا بنا نختار رمز الإجابة الصحيحة فيما يلي :

١ . العدد ٤٥٣ ٦٥ لأقرب عشرة الف :

أ ــ ٦٥٠٠٠　　ب ــ ٦٠٠٠٠　　ج ــ ٧٠٠٠٠　　د ــ ٦٥٤٥٠

٢ . ناتج ٥٠٠٠٠ + ٣٠٠٠٠ هو :

أ ــ ٨٠٠٠　　ب ــ ثمانون الف　　ج- ٢٠٠٠٠　　د- ٩٠٠٠٠

٣ . المطروح في العملية الاتية : ٦٥٧ ٨٧ ــ ٣٤٩ ٧٦ = ٣٠٨ ١١

أ ــ ٣٤٩٧٦　　ب ــ ٦٥٧ ٨٧　　ج- ٣٠٨ ١١　　د ــ ٤٠٠٠٠

٤ . ..... ــ ٤٠ ٠٠٠ = ٥٠ ٠٠٠ العدد المناسب لتصبح الإجابة صحيحة

أ ــ ١٠٠٠٠　　ب ــ ٨٠٠٠٠　　ج - ٦٠٠٠٠　　د - ٩٠٠٠٠

٢. لنجيب عما يلي

أولا : أجد ناتج الجمع الافقي واتحقق بالتبديل فيما يلي :

٣٤٥ ٣٤ + ٦ ٢٣٦ = ☐

التحقق بالتبديل :.....

ثانيا : أجد ناتج الطرح واتحقق بالتقدير فيما يلي :

٨ ٠ ٢ ٦ ٧

ــ ٣ ٤ ١ ٥ ٣

☐

التحقق بالتقدير

☐

٣. عم المنتج الوطني واجب وطني

أنتج مصنع ألبان الجبريني في الشهر الاول ٤٥٦ ٢٢ علبة لبن وفي الشهر الثاني أنتج ٤٢٣ ٣٢ علبة لبن :

أي الشهرين أنتج المصنع أكثر؟ .....

كم أنتج المصنع في الشهرين معاً؟.....

ما الفرق بين انتاج المصنع في الشهرين ؟.....

ورقـة عـمـل

الصف :٣س المبحث : الرياضيات

الوحدة : الضرب

١. هيا بنا نجد ناتج ما يلي :




أ. ٢ × ٢ = ☐ ب. ٦ × ٦ = ☐

ج. ٨ × ٧ = ☐ د. ٩ × ٥ = ☐

هـ. ٠ × ٤ = ☐ و. ١ × ٣ = ☐

أ. لنكتب الرقم الناقص في الفراغات التالية :



أ. ٥ + ٥ + ٥ + ٥ + ٥ + ٥ = ... × ٥

ب. ٤ سبعات = ... × .....

ج. ٧ أمثال العدد ٣ = ...

د. ٧ × ٣ = ... × ٧

ب. هيا بنا نُجب عن ما يلي :

أ. في الأسبوع الواحد ٧ أيام ، كم يوما" في ٨ أسابيع ؟

الحل :.....

ب. أنا عدد اذا ضربتني بالعدد ٧ ثم أضيف للناتج ٣ كان الناتج ٤٥ ، فمن أنا ؟

الحل : .....

ج . اكتب مسألةً كلامية يكون حلها ٣ ×٦ .

الحل : .....

.....

ورقة عمل

الصف :٣س المبحث : الرياضيات

الوحدة : القسمة

١. هيا بنا نضع إشارة صح للعبارة الصحيحة واشارة خطأ للعبارة غير الصحيحة :

١. ( ) في جملة القسمة يكون المقسوم أكبر من المقسوم عليه دائما .

٢. ( ) القسمة عكس الضرب .

٣. ( ) القسمة عملية جمع متكرر .

٤. ( ) ٨ ÷ ١ = ٨

٢. لنجد ناتج ما يلي :

أ. ٢٥ ÷ ٥ = ☐ ب . ١٦ ÷ ٢ = ☐ ج . ٣٢ ÷ ٤ = ☐

د. ٥٦ ÷ ٨ = ☐ هـ . ٦٣ ÷ ٩ = ☐ و . ١٧ ÷ ٠ = ☐

٣. هيا بنا نكمل الآتي

أ . عناصر جملة القسمة هي : ..... و ..... و .....

ب . زرع طلبة في مدرستهم ١٨ شجرة زيتون في ٣ أيام ، كم شجرة زرعوا في كل يوم ؟

الحل : .....

ج. اكمل النمط : ١٦ ، ٨ ، ٤ ،....، .....

٤. لنضع إشارة > ، < أو = في ☐ لتكون العبارة صحيحة :

١. ٦٤ ÷ ٨ ☐ ٣٦ ÷ ٤

٢. ٨ ÷ ١ ☐ ٨ ÷ ٨

٣. ٢٨ ÷ ٧ ☐ ٤٩ ÷ ٧

٤. ٧٢ ÷ ٩ ☐ ٣٢ ÷ ٤


ورقة عمل

الصف :٣س المبحث : الرياضيات


الوحدة : الكسور


١. هيا بنا نكتب الكسور التالية بالكلمات

أ. $\frac{٥}{٨}$: ..... ب. $\frac{٤}{١٠}$: .....



٢. لنكتب الكسر الذي يمثل الجزء المظلل في كل مجموعة مما يلي :

أ.  :

ب.  :

٣. هيا بنا نقارن بين الكسور التالية بوضع اشارة > أو < أو = :

أ. $\frac{٤}{٧}$ ◯ $\frac{٦}{٧}$ ب. $\frac{٥}{٨}$ ◯ $\frac{٣}{٨}$ ج. $\frac{٢}{٤}$ ◯ $\frac{١}{٢}$

٤. أعزائي الطلبة هيا بنا نقراء ونجيب

قطف احمد ٩ زهرات من حديقة منزلة إذا علمت أن ٤ زهراتٍ حمراء اللون و٣ زهرات ببضاء فما الكسر الدال على

١.عدد الزهرات الحمراء :  ٢. عدد الزهرات البيضاء : 

٥. لنمثل الكسور الآتية على خط الاعداد $\frac{١}{٥}$ ، $\frac{٣}{٥}$



٦. لنكمل الجدول الاتي

الشكل	عدد الاجزاء المتساوية	أَكتب الكسر بالأرقام	أَكتب الكسر بالحروف
	٥		
		$\frac{٦}{١٠}$	

ورقـة عـمــل

الصف :٣س المبحث : الرياضيات

الوحدة: الهندسة والقياس

١. هيا بنا نضع إشارة صح أمام العبارة الصحيحة واشارة خطأ أمام العبارة الخاطئة :

١. ( ) تقاس كتلة خاتم الذهب بوحدة الكيلو غرام .
٢. ( ) الساعة تساوي ٦٠ دقيقة .
٣. ( ) مساحة الشكل الهندسي هي عدد الوحدات المربعة التي تغطيه .
٤. ( ) قاعدة الهرم الرباعي خماسية الشكل .

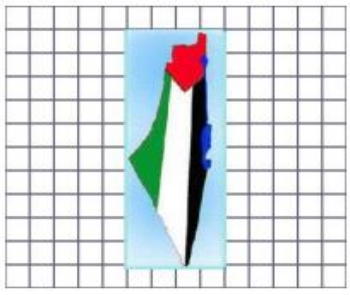
٢. اكتب الوقت الذي تشير اليه الساعات التالية بالكلمات :



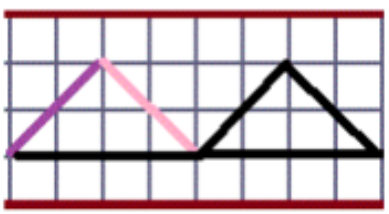





٣. لنحسب محيط كل صورة من الصور التالية :


٤. هيا بنا نحسب مساحة الاشكال التالية :

.....وحدة مربعة .....وحدة مربعة